Zadanie 1.1. (0–2)

1.1.
0–1–2

Podaj wynik działania algorytmu dla plansz podanych na rysunkach poniżej, gdzie *n to* liczba wierszy, a *m* to liczba kolumn danej planszy.

a) $n = 3$, $m = 3$



Wynik: _____

b) $n = 5$, $m = 3$



Wynik: _____

c) $n = 5$, $m = 5$



Wynik: _____

Miejsce na obliczenia (brudnopis)